Adı : .....
Soyadı: .....

3. Sınıf
Matematik

Toplama İşlemi
Yeni Nesil Sorular-2

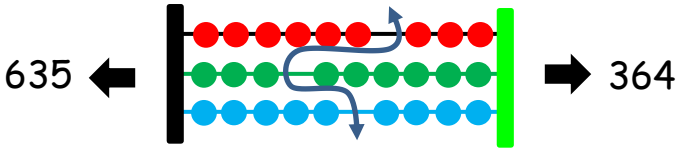

Yukarıdaki abaküste kırmızı boncuklar yüzlükleri, yeşil boncuklar onlukları, mavi boncuklar birlikleri göstermektedir. Abaküsün sol tarafında 635, sağ tarafında 364 sayıları vardır.

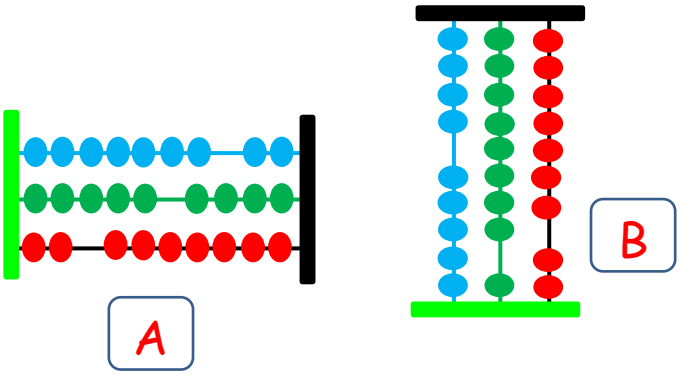

A abaküsündeki büyük sayı ile B abaküsündeki küçük sayının toplamı kaçtır?

(A) 742 (B) 957
(C) 859 (D) 986

Aşağıdaki abaküsteki küçük sayı kaçtır?

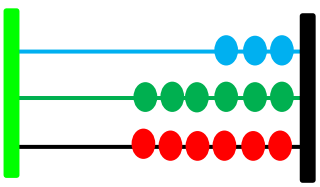

(A) 366
(B) 833
(C) 663
(D) 338

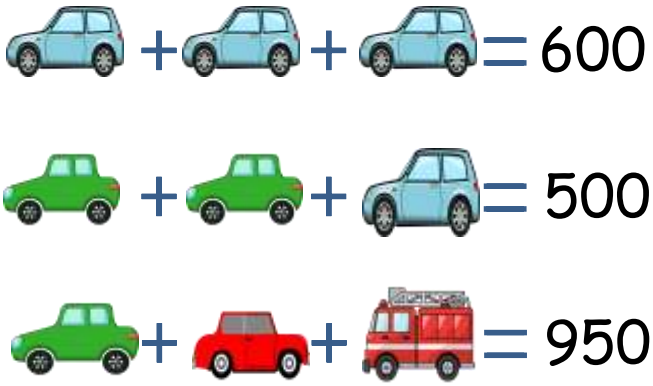

Yukarıdaki görselde taşıtların her biri 3 basamaklı sayıya eşittir.

Kırmızı arabanın sayısı; mavi ve yeşil arabaların toplamına eşittir. Bu durumda itfaiyenin alacağı sayı kaçtır?

(A) 400 (B) 350
(C) 450 (D) 500

Yukarıdaki toplama işlemlerindeki taşıtların değerlerine göre aşağıdaki taşıtların toplam değeri kaçtır?



(A) 850 (B) 1000
(C) 900 (D) 950

Adı : .....
Soyadı: .....

3. Sınıf
Matematik

Toplama İşlemi
Yeni Nesil Sorular-2



Yukarıdaki kartların arka yüzünde sayıların tersi yazmaktadır. Kartların altındaki boşluklar ise kartın puanını gösterir. Kartın puanı ön ve arka yüzündeki sayıların toplamıdır.

Hangi kartın puanı daha yüksektir?

(A) Mavi
(B) Kırmızı
(C) Sarı
(D) Yeşil

Kartların ön ve arka yüzündeki sayıları en yakın yüzlüğe yuvarladığımızda en büyük puana sahip kart hangisi olurdu?

(A) Mavi
(B) Kırmızı
(C) Sarı
(D) Yeşil

3	2	4		1
4		2	B	
1	C		2	3
	3	1	4	A
2		3		4

Yukarıdaki sudoku bulmacada 1-2-3-4-5 rakamları kullanılmıştır. Her sütunda ve her satırda aynı rakam bulunamaz.

Yukarıdaki sudoku bulmacasını tamamladıktan sonra renkli kutulara denk gelen rakamlara göre aşağıdaki işlemin sonucu kaçtır?

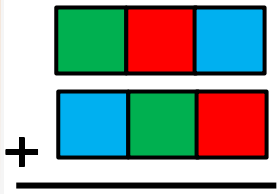

(A) 657
(B) 575
(C) 486
(D) 554

Yukarıdaki sudoku bulmacasına göre aşağıdaki işlemin sonucu kaçtır?

ABA +ACA + CAB =?

(A) 876
(B) 578
(C) 648
(D) 897

COPYRIGHT

Mustafa Kabul